erledigt ☐ kontrolliert ☐

Vorgänger und Nachfolger

Gib jeweils den Vorgänger und Nachfolger an.

A	219	B	1989	C	671
D	7701	E	9989	F	3787
G	3327	H	1711	I	5821

erledigt ☐ kontrolliert ☐

Stellenwerttafel

Welche Zahlen sind dargestellt?

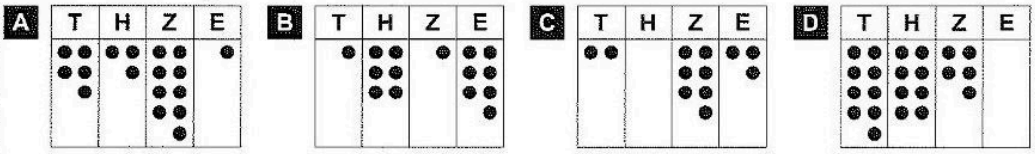

erledigt ☐ kontrolliert ☐

Zahlenmauern

Setze die Zahlen so in die Zahlenmauer ein, dass zwei Zahlen, die nebeneinander stehen, zusammengezählt immer die Zahl darüber ergeben.
Löse die Aufgabe zunächst auf einem Zettel oder im Heft und übertrage dann deine Lösung in diese Zahlenmauer.

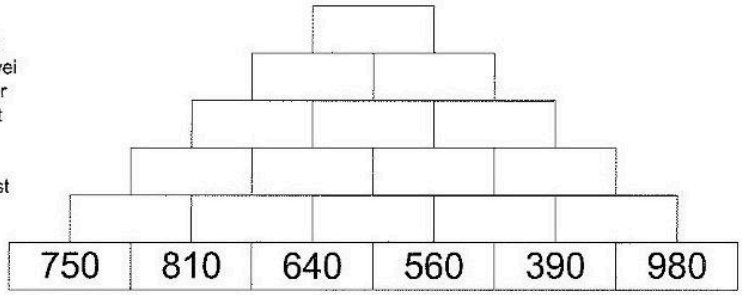

erledigt ☐ kontrolliert ☐

Muster und Ordnungen

Zeichne das Muster weiter. Du kannst dein Bild farbig ausmalen.



erledigt ☐ kontrolliert ☐

Runden auf Tausender

Runde jeweils alle Zahlen auf Tausender und addiere die gerundeten Zahlen. Aus den Kennbuchstaben der richtigen Lösungen ergibt sich ein Lösungswort.

A
6549 +
+ 8173 +
+ 3622
17000 (P) 18000 (K) 19000 (H)

B
1386 +
+ 4791 +
+ 2098
8000 (A) 9000 (Ö) 10000 (L)

C
897 +
+ 7415 +
+ 4501
11000 (R) 12000 (L) 13000 (I)

D
6432 +
+ 7607 +
+ 4495
18000 (T) 19000 (I) 20000 (S)

E
1179 +
+ 6638 +
+ 7763
14000 (S) 15000 (N) 16000 (I)

Lösungswort:

A ☐ B ☐ C ☐ D ☐ E ☐

Angaben zu den Urhebern und Lizenzbedingungen der einzelnen Bestandteile dieses Dokuments finden Sie unter
https://www.tutory.de/entdecken/dokument/wochenplan-mathematik-4-i

Angaben zu den Urhebern und Lizenzbedingungen der einzelnen Bestandteile dieses Dokuments finden Sie unter
https://www.tutory.de/entdecken/dokument/wochenplan-mathematik-4-i